Uppdrag 1
Hur många geometriska figurer kan ni hitta?

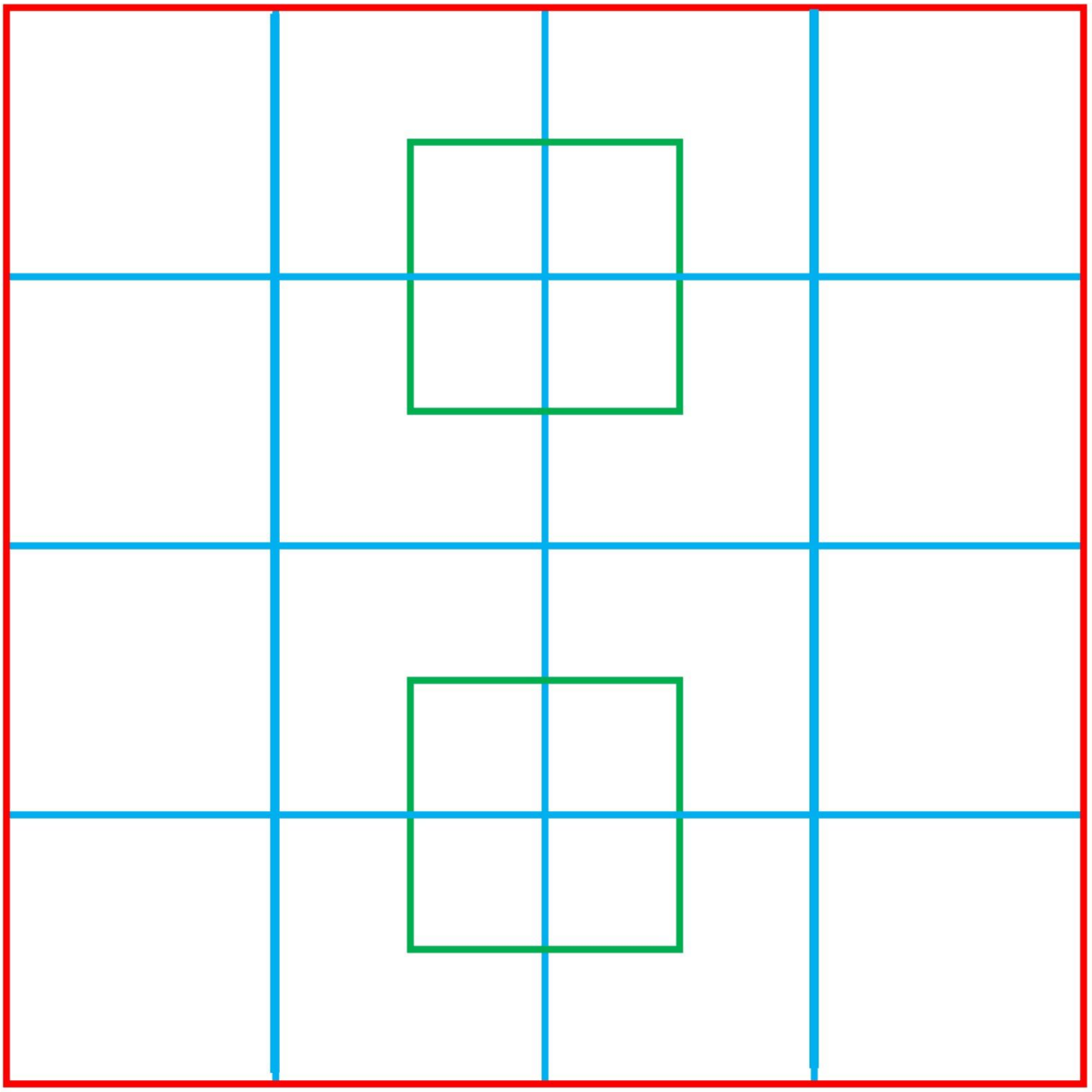

Antalet kvadrater: _____

Uppdrag 1
Hur många geometriska figurer kan ni hitta?

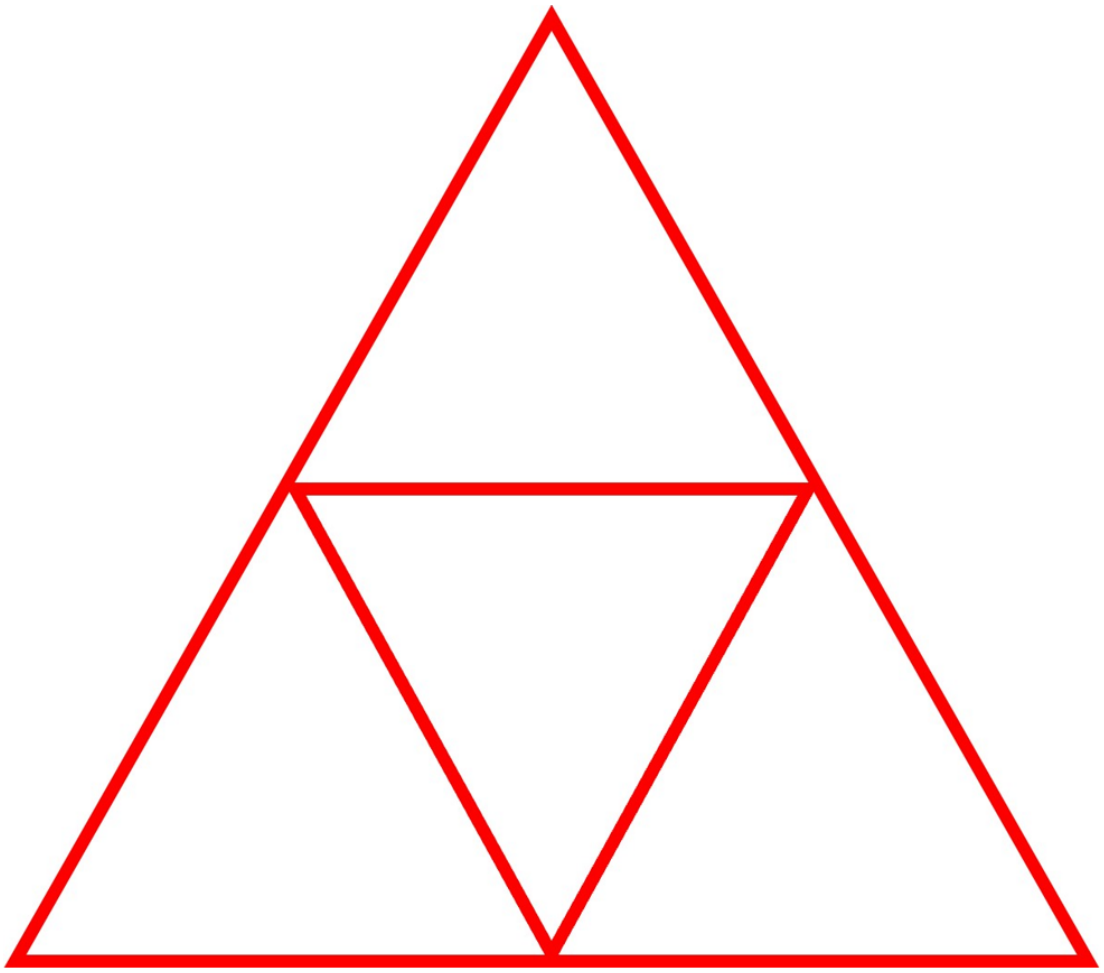

Antalet trianglar: _____

Uppdrag 1
Hur många geometriska figurer kan ni hitta?

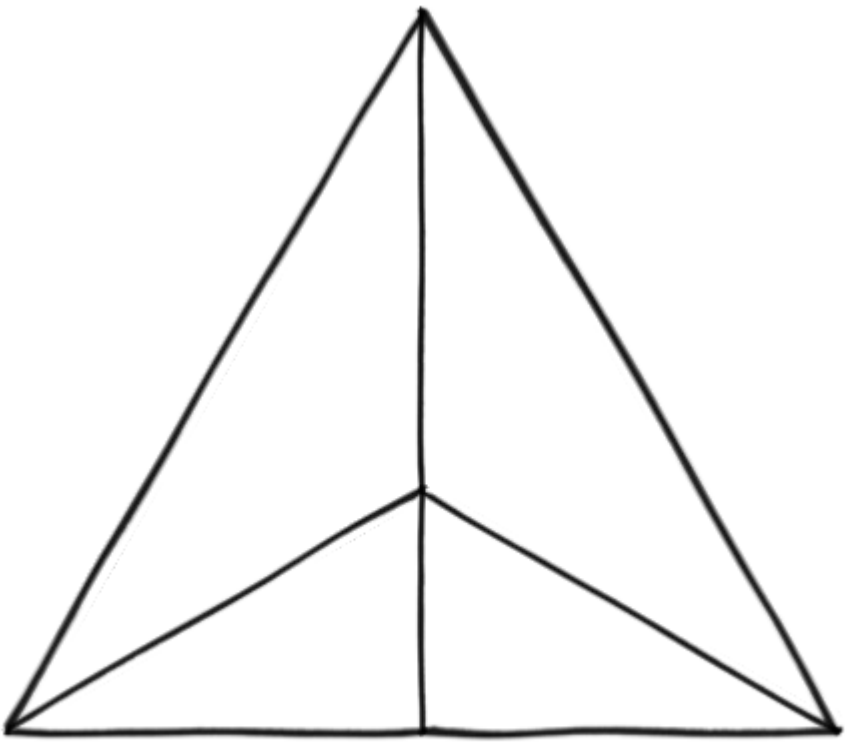

Antalet trianglar: _____

Uppdrag 1
Hur många geometriska figurer kan ni hitta?

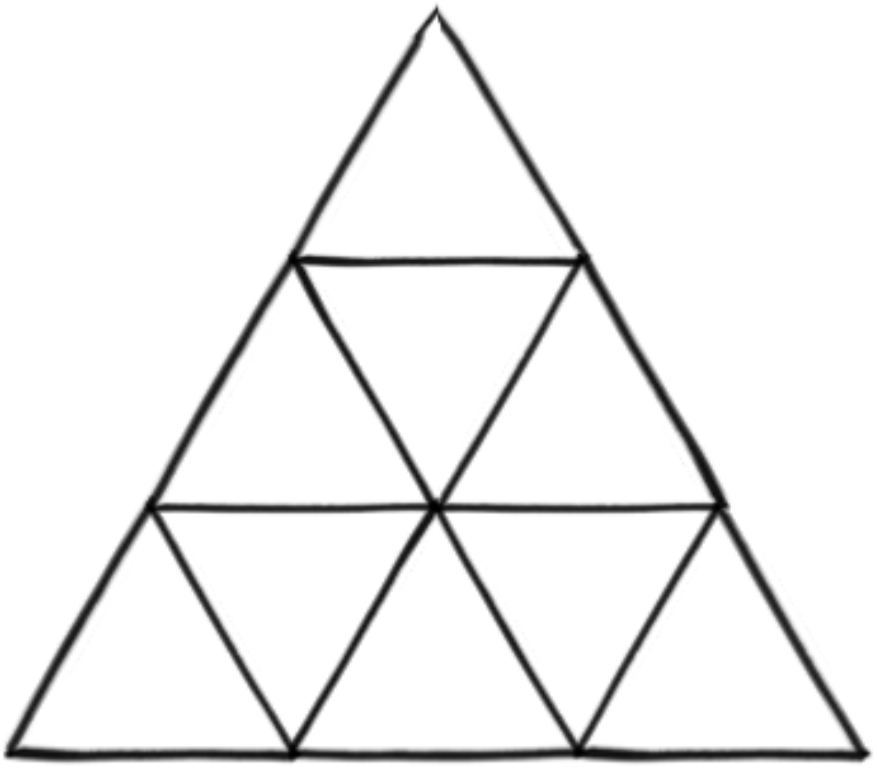

Antalet trianglar: _____

Uppdrag 2 Sudoku

Lös sudoku för att få ledtråden till escaperoom.

F-1

Tyvärr kan vi inte delge de sudoku vi använde för de tillhör vårt läromedel.

_____ _____ _____ _____

Uppdrag 2 Sudoku

Lös sudoku för att få ledtråden till escaperoom.

2-3

Tyvärr kan vi inte delge de sudoku vi använde för de tillhör vårt läromedel.

_____ _____ _____ _____

Uppdrag 2 Sudoku

Lös sudoku för att få ledtråden till escaperoom.

4-6

Tyvärr kan vi inte delge de sudoku vi använde för de tillhör vårt läromedel.

____ ____ ____ _____

Uppdrag 2 Sudoku

Lös sudoku för att få ledtråden till escaperoom.

5-6 svår

Tyvärr kan vi inte delge de sudoku vi använde för de tillhör vårt läromedel.

____ ____ ____ _____

3. Uppdrag- Flytta rätt pjäser!

Summan:_____

Uppdrag 4 Sant eller falskt

Gröningen/stora gräsplanen

Summan av de falska korten:_____

Uppdrag 5 Lös ekvationerna!

Gröningen/stora gräsplanen

___ ___ ___

___ ___ ___